Usa le forme per risopndere alle domande.

Es) Quanti gruppi di 6 puoi fare con le 18 forme qui sotto?

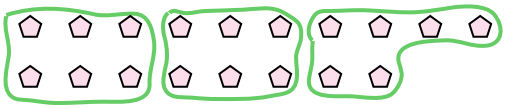

1) Quanti gruppi di 7 puoi fare con le 21 forme qui sotto?

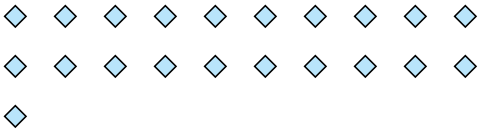

2) Quanti gruppi di 3 puoi fare con le 6 forme qui sotto?

3) Quanti gruppi di 6 puoi fare con le 18 forme qui sotto?

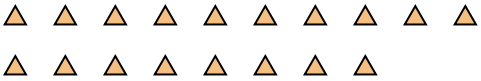

4) Quanti gruppi di 8 puoi fare con le 24 forme qui sotto?

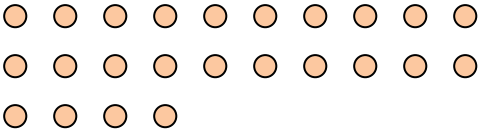

5) Quanti gruppi di 8 puoi fare con le 16 forme qui sotto?

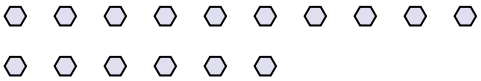

6) Quanti gruppi di 4 puoi fare con le 16 forme qui sotto?

7) Quanti gruppi di 7 puoi fare con le 35 forme qui sotto?



8) Quanti gruppi di 3 puoi fare con le 15 forme qui sotto?

9) Quanti gruppi di 2 puoi fare con le 18 forme qui sotto?

10) Quanti gruppi di 4 puoi fare con le 8 forme qui sotto?

11) Quanti gruppi di 7 puoi fare con le 14 forme qui sotto?

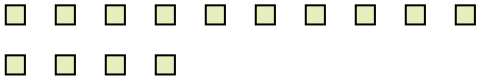

Risposte

Es. 3

1. _____
2. _____
3. _____
4. _____
5. _____
6. _____
7. _____
8. _____
9. _____
10. _____
11. _____

1-10	91	82	73	64	55	45	36	27	18	9
11	0									

Divisioni visive

Nome: **Soluzioni**

Usa le forme per risopndere alle domande.

Es) Quanti gruppi di 6 puoi fare con le 18 forme qui sotto?

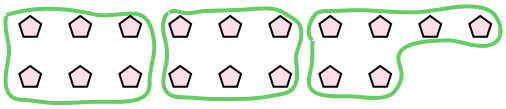

1) Quanti gruppi di 7 puoi fare con le 21 forme qui sotto?

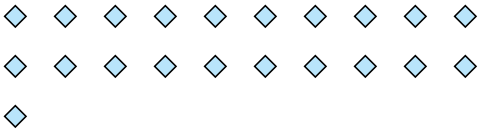

2) Quanti gruppi di 3 puoi fare con le 6 forme qui sotto?

3) Quanti gruppi di 6 puoi fare con le 18 forme qui sotto?

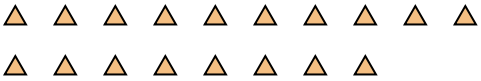

4) Quanti gruppi di 8 puoi fare con le 24 forme qui sotto?

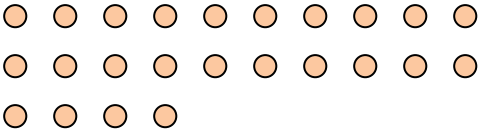

5) Quanti gruppi di 8 puoi fare con le 16 forme qui sotto?

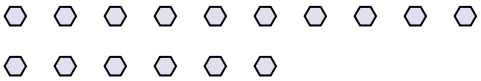

6) Quanti gruppi di 4 puoi fare con le 16 forme qui sotto?

7) Quanti gruppi di 7 puoi fare con le 35 forme qui sotto?



8) Quanti gruppi di 3 puoi fare con le 15 forme qui sotto?

9) Quanti gruppi di 2 puoi fare con le 18 forme qui sotto?

10) Quanti gruppi di 4 puoi fare con le 8 forme qui sotto?

11) Quanti gruppi di 7 puoi fare con le 14 forme qui sotto?

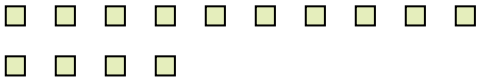

Risposte

Es.	3
1.	3
2.	2
3.	3
4.	3
5.	2
6.	4
7.	5
8.	5
9.	9
10.	2
11.	2

1-10	91	82	73	64	55	45	36	27	18	9
11	0									