Divisioni visive

Nome:

Usa le forme per risopndere alle domande.

Es) Quanti gruppi di 6 puoi fare con le 18 forme qui sotto?

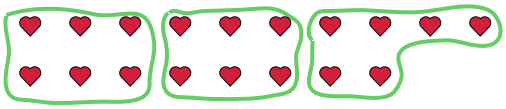

1) Quanti gruppi di 8 puoi fare con le 16 forme qui sotto?

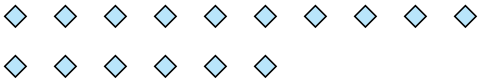

2) Quanti gruppi di 6 puoi fare con le 36 forme qui sotto?



3) Quanti gruppi di 5 puoi fare con le 25 forme qui sotto?

4) Quanti gruppi di 5 puoi fare con le 15 forme qui sotto?

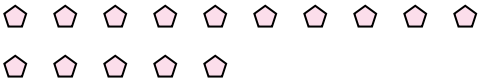

5) Quanti gruppi di 3 puoi fare con le 6 forme qui sotto?

6) Quanti gruppi di 4 puoi fare con le 40 forme qui sotto?

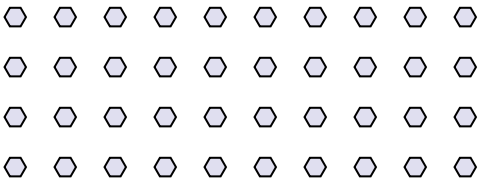

7) Quanti gruppi di 2 puoi fare con le 16 forme qui sotto?

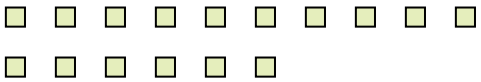

8) Quanti gruppi di 6 puoi fare con le 30 forme qui sotto?



9) Quanti gruppi di 7 puoi fare con le 21 forme qui sotto?

10) Quanti gruppi di 8 puoi fare con le 24 forme qui sotto?

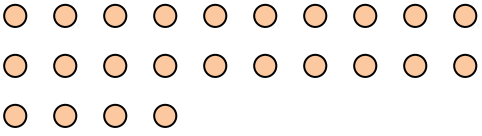

11) Quanti gruppi di 2 puoi fare con le 22 forme qui sotto?



Risposte

Es. 3

1. _____
2. _____
3. _____
4. _____
5. _____
6. _____
7. _____
8. _____
9. _____
10. _____
11. _____

1-10	91	82	73	64	55	45	36	27	18	9
11	0									

Divisioni visive

Nome: **Soluzioni**

Usa le forme per risopndere alle domande.

Es) Quanti gruppi di 6 puoi fare con le 18 forme qui sotto?

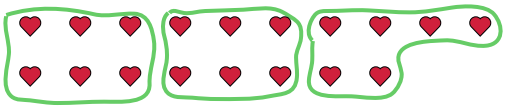

1) Quanti gruppi di 8 puoi fare con le 16 forme qui sotto?

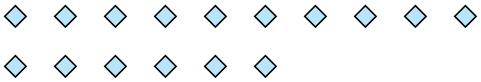

2) Quanti gruppi di 6 puoi fare con le 36 forme qui sotto?



3) Quanti gruppi di 5 puoi fare con le 25 forme qui sotto?

4) Quanti gruppi di 5 puoi fare con le 15 forme qui sotto?

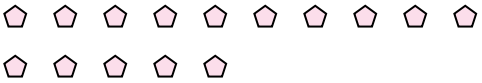

5) Quanti gruppi di 3 puoi fare con le 6 forme qui sotto?

6) Quanti gruppi di 4 puoi fare con le 40 forme qui sotto?

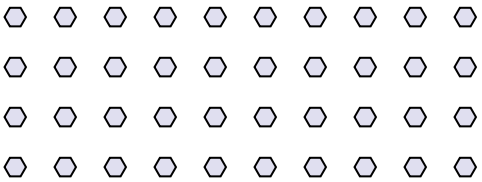

7) Quanti gruppi di 2 puoi fare con le 16 forme qui sotto?

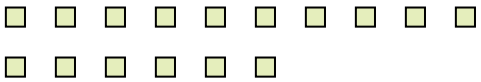

8) Quanti gruppi di 6 puoi fare con le 30 forme qui sotto?



9) Quanti gruppi di 7 puoi fare con le 21 forme qui sotto?



10) Quanti gruppi di 8 puoi fare con le 24 forme qui sotto?

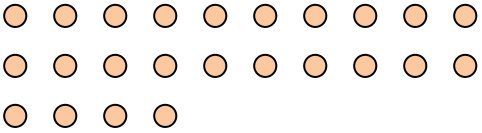

11) Quanti gruppi di 2 puoi fare con le 22 forme qui sotto?



Risposte

Es.	3
1.	2
2.	6
3.	5
4.	3
5.	2
6.	10
7.	8
8.	5
9.	3
10.	3
11.	11

1-10	91	82	73	64	55	45	36	27	18	9
11	0									