Divisioni visive

Nome:

Usa le forme per risopndere alle domande.

Es) Quanti gruppi di 6 puoi fare con le 18 forme qui sotto?

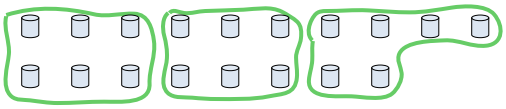

1) Quanti gruppi di 2 puoi fare con le 28 forme qui sotto?



2) Quanti gruppi di 8 puoi fare con le 16 forme qui sotto?

3) Quanti gruppi di 5 puoi fare con le 10 forme qui sotto?

4) Quanti gruppi di 9 puoi fare con le 18 forme qui sotto?

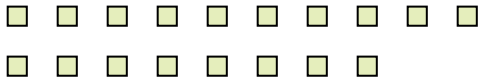

5) Quanti gruppi di 6 puoi fare con le 18 forme qui sotto?

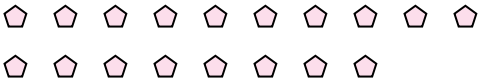

6) Quanti gruppi di 7 puoi fare con le 28 forme qui sotto?



7) Quanti gruppi di 3 puoi fare con le 33 forme qui sotto?

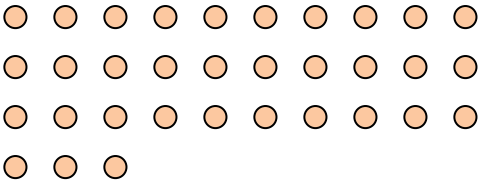

8) Quanti gruppi di 7 puoi fare con le 21 forme qui sotto?

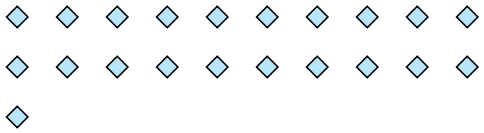

9) Quanti gruppi di 2 puoi fare con le 6 forme qui sotto?

10) Quanti gruppi di 8 puoi fare con le 40 forme qui sotto?

11) Quanti gruppi di 4 puoi fare con le 36 forme qui sotto?



Risposte

Es. 3

1. _____
2. _____
3. _____
4. _____
5. _____
6. _____
7. _____
8. _____
9. _____
10. _____
11. _____

Divisioni visive

Nome: **Soluzioni**

Usa le forme per risopndere alle domande.

Es) Quanti gruppi di 6 puoi fare con le 18 forme qui sotto?

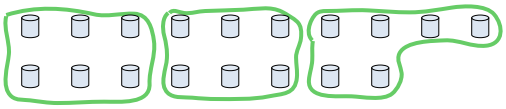

1) Quanti gruppi di 2 puoi fare con le 28 forme qui sotto?



2) Quanti gruppi di 8 puoi fare con le 16 forme qui sotto?

3) Quanti gruppi di 5 puoi fare con le 10 forme qui sotto?

4) Quanti gruppi di 9 puoi fare con le 18 forme qui sotto?

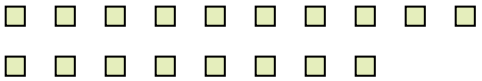

5) Quanti gruppi di 6 puoi fare con le 18 forme qui sotto?

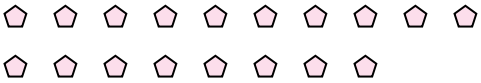

6) Quanti gruppi di 7 puoi fare con le 28 forme qui sotto?



7) Quanti gruppi di 3 puoi fare con le 33 forme qui sotto?

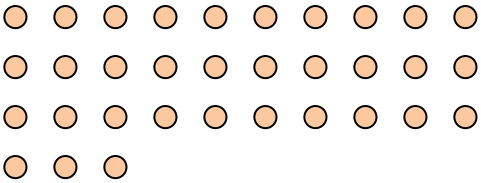

8) Quanti gruppi di 7 puoi fare con le 21 forme qui sotto?

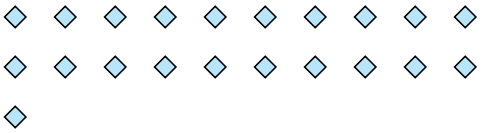

9) Quanti gruppi di 2 puoi fare con le 6 forme qui sotto?

10) Quanti gruppi di 8 puoi fare con le 40 forme qui sotto?

11) Quanti gruppi di 4 puoi fare con le 36 forme qui sotto?



Risposte

Es.	3
1.	14
2.	2
3.	2
4.	2
5.	3
6.	4
7.	11
8.	3
9.	3
10.	5
11.	9

1-10	91	82	73	64	55	45	36	27	18	9
11	0									