Trova i rapporti (graficamente)

Nome:

Risolvi ogni problema.

Es) Qual è il rapporto tra stelle e pentagoni?



1) Qual è il rapporto tra pentagoni e stelle?

2) Qual è il rapporto tra hearts e quadrati?

3) Qual è il rapporto tra pentagoni e stelle?

4) Qual è il rapporto tra stelle e cerchi?



5) Qual è il rapporto tra cerchi e pentagoni?

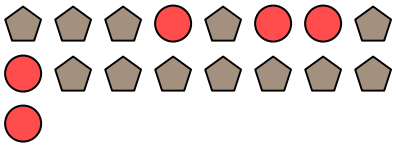

6) Qual è il rapporto tra pentagoni e hearts?



7) Qual è il rapporto tra triangoli e pentagoni?

8) Qual è il rapporto tra quadrati e cerchi?

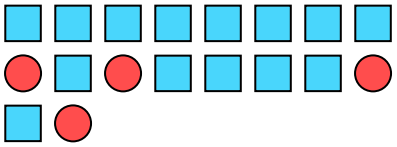

9) Qual è il rapporto tra stelle e pentagoni?

10) Qual è il rapporto tra moons e hearts?

11) Qual è il rapporto tra moons e quadrati?

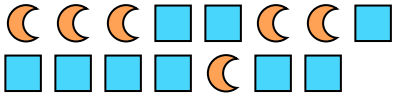

Risposte

Es. 15:10

1. _____
2. _____
3. _____
4. _____
5. _____
6. _____
7. _____
8. _____
9. _____
10. _____
11. _____

1-10	91	82	73	64	55	45	36	27	18	9
11	0									

Trova i rapporti (graficamente) Nome: **Soluzioni**

Risolvi ogni problema.

Es) Qual è il rapporto tra stelle e pentagoni?



1) Qual è il rapporto tra pentagoni e stelle?

2) Qual è il rapporto tra hearts e quadrati?

3) Qual è il rapporto tra pentagoni e stelle?

4) Qual è il rapporto tra stelle e cerchi?



5) Qual è il rapporto tra cerchi e pentagoni?

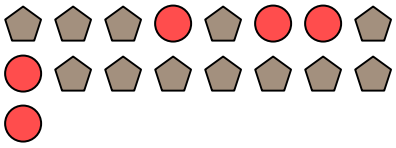

6) Qual è il rapporto tra pentagoni e hearts?



7) Qual è il rapporto tra triangoli e pentagoni?

8) Qual è il rapporto tra quadrati e cerchi?

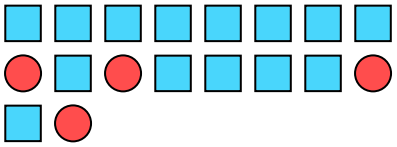

9) Qual è il rapporto tra stelle e pentagoni?

10) Qual è il rapporto tra moons e hearts?

11) Qual è il rapporto tra moons e quadrati?

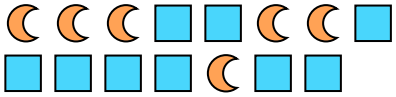

Risposte

Es.	15:10
1.	8:12
2.	10:2
3.	11:5
4.	3:10
5.	5:12
6.	14:15
7.	8:6
8.	14:4
9.	7:5
10.	8:5
11.	6:9

1-10	91	82	73	64	55	45	36	27	18	9
11	0									